Sachaufgaben 15a



1. Sabine isst gerne Schokolade. In einer Woche isst sie 10 Tafeln. Ihre Schwester isst nur halb so viel Schokolade. Wie viel hat ihre Schwester gegessen?

R	:																							
A	:																							

2. Sonja isst 6 Tafeln Schokolade. Ihr Bruder isst doppelt so viel. Wie viel hat ihr Bruder gegessen?

R	:																							
A	:																							

3. Laura isst 20 Stück Schokolade. Lena isst halb so viel. Wie viel Schokolade hat sie gegessen?

R	:																							
A	:																							

4. Lena isst 13 Stück Schokolade. Laura isst doppelt so viel. Wie viel Schokolade hat Laura gegessen?

R	:																							
A	:																							

Sachaufgaben 15b



1. Sabine isst gerne Schokolade. In einem Monat isst sie 30 Tafeln. Ihre Schwester isst nur halb so viel Schokolade. Wie viel hat ihre Schwester gegessen?

R	:																							
A	:																							

2. Sonja isst 17 Tafeln Schokolade. Ihr Bruder isst doppelt so viel. Wie viel hat ihr Bruder gegessen?

R	:																							
A	:																							

3. Laura isst 84 Stück Schokolade. Lena isst halb so viel.
Wie viel Schokolade hat sie gegessen?

R	:																							
A	:																							

4. Lena isst 39 Stück Schokolade. Laura isst doppelt so viel.
Wie viel Schokolade hat Laura gegessen?

R	:																							
A	:																							

Sachaufgaben 16a



1. Auf einem Parkplatz stehen 40 Autos. 3 Autos fahren weg.
Wie viele Autos stehen noch auf dem Parkplatz?

R	:																						
A	:																						

2. Auf einem Parkplatz stehen 47 Autos. Es kommen noch 5 Autos dazu. Wie viele Autos stehen jetzt auf dem Parkplatz?

R	:																						
A	:																						

3. Auf dem Parkplatz stehen 120 Autos. 13 Autos kommen dazu.
Wie viele Autos stehen jetzt auf dem Parkplatz?

R	:																						
A	:																						

4. Auf dem Parkplatz stehen 156 Autos. 24 Autos fahren weg.
Wie viele Autos stehen jetzt auf dem Parkplatz?

R	:																						
A	:																						

Sachaufgaben 16b



1. Auf einem Parkplatz stehen 400 Autos. 123 Autos fahren weg.
Wie viele Autos stehen noch auf dem Parkplatz?

R	:																						
A	:																						

2. Auf einem Parkplatz stehen 470 Autos. Es kommen noch 42 Autos dazu. Wie viele Autos stehen jetzt auf dem Parkplatz?

R	:																						
A	:																						

3. Auf dem Parkplatz stehen 120 Autos. 97 Autos kommen dazu.
Wie viele Autos stehen jetzt auf dem Parkplatz?

R	:																						
A	:																						

4. Auf dem Parkplatz stehen 243 Autos. 99 Autos fahren weg.
Wie viele Autos stehen jetzt auf dem Parkplatz?

R	:																						
A	:																						

Sachaufgaben 17a

1. Niko schaufelt am Vormittag 10 m Schnee und am Nachmittag 23 m Schnee. Wie viele m hat er geschaufelt?

R	:																						
A	:																						

2. Niko schaufelt am Vormittag 30 m Schnee und am Nachmittag 42 m Schnee. Wie viele m hat er geschaufelt?

R	:																						
A	:																						

3. Niko schaufelt am Vormittag 23 m Schnee und am Nachmittag 19 m Schnee. Wie viele m hat er geschaufelt?

R	:																						
A	:																						

4. Niko schaufelt am Vormittag 19 m Schnee und am Nachmittag 32 m Schnee. Wie viele m hat er geschaufelt?

R	:																						
A	:																						

Sachaufgaben 17b

1. Niko schaufelt muss einen 20 m langen Weg frei schaufeln.
Er hat schon 7 m geschafft. Wie viele m muss er noch schaufeln?

R	:																						
A	:																						

2. Niko schaufelt muss einen 40 m langen Weg frei schaufeln.
Er hat schon 17 m geschafft. Wie viele m muss er noch schaufeln?

R	:																						
A	:																						

3. Niko schaufelt muss einen 200 m langen Weg frei schaufeln.
Er hat schon 107 m geschafft. Wie viele m muss er noch schaufeln?

R	:																						
A	:																						

4. Niko schaufelt muss einen 140 m langen Weg frei schaufeln.
Er hat schon 93 m geschafft. Wie viele m muss er noch schaufeln?

R	:																						
A	:																						

Sachaufgaben 18a

1. Nina fährt 3 mal mit dem Schilift nach oben.
Eine Fahrt kostet 2 Euro. Wie viel muss sie bezahlen?

R	:																						
A	:																						

2. Nina fährt 6 mal mit dem Schilift nach oben.
Eine Fahrt kostet 2 Euro. Wie viel muss sie bezahlen?

R	:																						
A	:																						

3. Nina fährt 12 mal mit dem Schilift nach oben.
Eine Fahrt kostet 2 Euro. Wie viel muss sie bezahlen?

R	:																						
A	:																						

4. Nina fährt 9 mal mit dem Schilift nach oben.
Eine Fahrt kostet 2 Euro. Wie viel muss sie bezahlen?

R	:																						
A	:																						

Sachaufgaben 18b

1. Eine Fahrt mit dem Schilift kostet 3 Euro.
Nina hat 30 Euro. Wie oft kann sie fahren?

R	:																						
A	:																						

2. Eine Fahrt mit dem Schilift kostet 3 Euro.
Nina hat 30 Euro. Wie oft kann sie fahren?

R	:																						
A	:																						

3. Eine Fahrt mit dem Schilift kostet 3 Euro.
Nina hat 30 Euro. Wie oft kann sie fahren?

R	:																						
A	:																						

4. Eine Fahrt mit dem Schilift kostet 3 Euro.
Nina hat 30 Euro. Wie oft kann sie fahren?

R	:																						
A	:																						

Sachaufgaben 19a

1. Clown Coco hat 200 Bonbons gekauft. Beim Umzug wirft er 150 Bonbons zu den Leuten. Wie viel hat er noch?

R	:																						
A	:																						

2. Clown Coco hat 300 Bonbons gekauft. Beim Umzug wirft er 143 Bonbons zu den Leuten. Wie viel hat er noch?

R	:																						
A	:																						

3. Clown Coco hat 1000 Bonbons gekauft. Beim Umzug wirft er 453 Bonbons zu den Leuten. Wie viel hat er noch?

R	:																						
A	:																						

4. Clown Coco hat 1000 Bonbons gekauft. Beim Umzug wirft er 578 Bonbons zu den Leuten. Wie viel hat er noch?

R	:																						
A	:																						

Sachaufgaben 19b

1. Clown Coco sammelt 134 Bonbons und 24 Lollis.
Wie viel Süßigkeiten hat er gesammelt?

R	:																						
A	:																						

2. Clown Coco sammelt 244 Bonbons und 91 Lollis.
Wie viel Süßigkeiten hat er gesammelt?

R	:																						
A	:																						

3. Clown Coco sammelt 294 Bonbons und 55 Lollis.
Wie viel Süßigkeiten hat er gesammelt?

R	:																						
A	:																						

4. Clown Coco sammelt 199 Bonbons und 87 Lollis.
Wie viel Süßigkeiten hat er gesammelt?

R	:																						
A	:																						

Sachaufgaben 20a



1. Das Känguru hüpft 6 m und 7 m. Wie weit ist es gehüpft?

R	:																						
A	:																						

2. Das Känguru hüpft 13 m und 12 m. Wie weit ist es gehüpft?

R	:																						
A	:																						

3. Das Känguru hüpft 80m und 70 m. Wie weit ist es gehüpft?

R	:																						
A	:																						

4. Das Känguru hüpft 24 m und 19 m. Wie weit ist es gehüpft?

R	:																						
A	:																						

Sachaufgaben 20b



1. Das Känguru will 40 m weit hüpfen. 7 m hat es schon geschafft. Wie weit muss es noch hüpfen?

R	:																						
A	:																						

2. Das Känguru will 150 m weit hüpfen.43 m hat es schon geschafft. Wie weit muss es noch hüpfen?

R	:																						
A	:																						

3. Das Känguru will 400 m weit hüpfen. 247 m hat es schon geschafft. Wie weit muss es noch hüpfen?

R	:																						
A	:																						

4. Mit einem Sprung schafft das Känguru 4 m. Wie viele Sprünge braucht es für 36 m ?

R	:																						
A	:																						

Sachaufgaben 21a



1. Der Elefant wiegt 1000 kg. Der Bär wiegt nur 350 kg.
Um wie viele kg ist der Elefant schwerer?

R	:																						
A	:																						

2. Der Elefant wiegt 1000 kg. Der Bär wiegt nur 420 kg.
Um wie viele kg ist der Elefant schwerer?

R	:																						
A	:																						

3. Der Elefant wiegt 1000 kg. Der Bär wiegt nur 198 kg.
Um wie viele kg ist der Elefant schwerer?

R	:																						
A	:																						

4. Der Bär wiegt 299kg. Der Elefant wiegt um 654 kg mehr.
Wie viel kg wiegt der Elefant?

R	:																						
A	:																						

Sachaufgaben 21b



1. Der Bär wiegt 289kg. Der Elefant wiegt um 547 kg mehr.
Wie viel kg wiegt der Elefant?

R	:																						
A	:																						

2. Der Bär wiegt 240 kg. Der Babyelefant wiegt doppelt so viel.
Wie viel wiegt der Elefant?

R	:																						
A	:																						

3. Der Bär wiegt 180 kg. Der Babyelefant wiegt doppelt so viel.
Wie viel wiegt der Elefant?

R	:																						
A	:																						

4. Der Elefant wiegt 1000 kg. Der Bär wiegt die Hälfte.
Wie viel wiegt der Bär?

R	:																						
A	:																						

Sachaufgaben 22a

1. Ein Panda frisst 13 kg Bambus und 14 kg Bambus.
Wie viel kg hat er gefressen?

R	:																						
A	:																						

2. Ein Panda frisst 23 kg Bambus und 17 kg Bambus.
Wie viel kg hat er gefressen?

R	:																						
A	:																						

3. Ein Panda frisst 40 kg Bambus am Tag. Er hat schon 23 kg gefressen. Wie viel kg muss er noch fressen?

R	:																						
A	:																						

4. Ein Panda frisst 40 kg Bambus am Tag. Er hat schon 31 kg gefressen. Wie viel kg muss er noch fressen?

R	:																						
A	:																						

Sachaufgaben 22b

1. Panda Ping frisst 17 kg Bambus. Peng frisst doppelt so viel. Wie viel hat er gefressen?

R	:																						
A	:																						

2. Panda Ping frisst 20 kg Bambus. Peng frisst doppelt so viel. Wie viel hat er gefressen?

R	:																						
A	:																						

3. Panda Ping frisst 24 kg Bambus. Peng frisst halb so viel. Wie viel hat er gefressen?

R	:																						
A	:																						

4. Panda Ping frisst 42 kg Bambus. Peng frisst halb so viel. Wie viel hat er gefressen?

R	:																						
A	:																						